Pour compléter ces carrés magiques, rappelle-toi des stratégies vues en classe.

Complète les carrés magiques pour que toutes les lignes, toutes les colonnes et toutes les diagonales obtiennent la même somme.

	2	1
	2	
3		1

Total : 6

1	3	
	2	
2		

Total : 6

2		1
	1	

Total : 6

1		4
6		
	2	

Total : 9

	5	2
4		4

Total : 9

	5	
5		3

Total : 9

Stratégies vues en classe :

Les stratégies pour compléter un carré magique de 6

	1° Je cherche une case blanche.
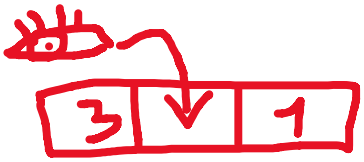	2° Je cherche une ligne où il n'y a qu'***une*** case vide.
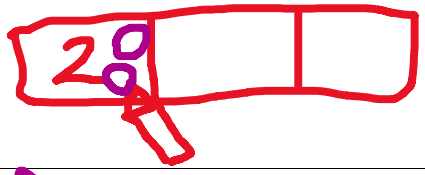	3° Je dessine les ronds dans les cases où des chiffres sont déjà écrits.
	4° Je compte les ronds..
	5° ...puis je dessine ce qu'il manque pour faire 6.
	6°Je compte les ronds que je viens de dessiner.
	7° J'écris le nombre (qui correspond à mon compte de l'étape 5°).